So differenzieren Sie mit den Kopiervorlagen:

Jede Kopiervorlage besteht aus zwei Seiten und einer Lösung.


KV 9

Das alte Rom

Auf Handelsreise am Limes

1 Gaius hat für seine Geschwister zuhause eine Zeichnung des Limes angefertigt. Beschrifte sie.

2 Maria, die kleine Schwester von Gaius, möchte zuhause wissen, wie das Alarmsystem am Limes funktioniert. Zeichne Pfeile in die Skizze ein und erkläre die Abläufe und deren Reihenfolge.


KV 9

Das alte Rom

Lösungshilfen

1 Ordne die Begriffe den Zahlen auf dem Schaubild zu.
Kästchen mit Begriffen:
freies Germanien – Römisches Reich – Limestor/Durchlass – Palisadenzaun – Graben – Erdwall – Limesturm – Limeskastell

2 Sieh dir das Schaubild an und erkläre die Abläufe, die durch die Pfeile dargestellt werden, deinem Nachbarn.

Zusatzaufgabe

3 Gaius und seine Schwester Maria streiten sich. Ist der Limes eine Grenzstation oder eine Handelsstation? Was meinst du? Begründe deine Meinung.

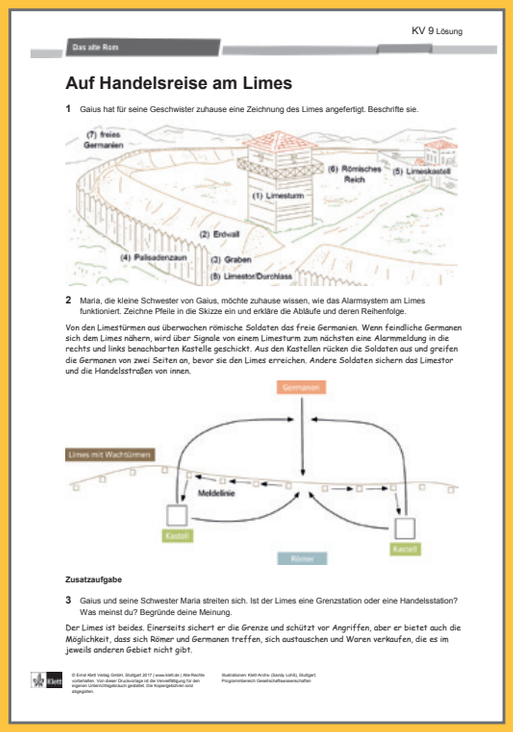
KV 9 Lösung

Das alte Rom

Auf Handelsreise am Limes

1 Gaius hat für seine Geschwister zuhause eine Zeichnung des Limes angefertigt. Beschrifte sie.

2 Maria, die kleine Schwester von Gaius, möchte zuhause wissen, wie das Alarmsystem am Limes funktioniert. Zeichne Pfeile in die Skizze ein und erkläre die Abläufe und deren Reihenfolge.

Von den Limestürmen aus überwachen römische Soldaten das freie Germanien. Wenn feindliche Germanen sich dem Limes nähern, wird über Signale von einem Limesturm zum nächsten eine Alarmmeldung in die rechts und links benachbarten Kastelle geschickt. Aus den Kastellen rücken die Soldaten aus und greifen die Germanen von zwei Seiten an, bevor sie den Limes erreichen. Andere Soldaten sichern das Limestor und die Handelsstraßen von innen.

Zusatzaufgabe

3 Gaius und seine Schwester Maria streiten sich. Ist der Limes eine Grenzstation oder eine Handelsstation? Was meinst du? Begründe deine Meinung.

Der Limes ist beides. Einerseits sichert er die Grenze und schützt vor Angriffen, aber er bietet auch die Möglichkeit, dass sich Römer und Germanen treffen, sich austauschen und Waren verkaufen, die es im jeweils anderen Gebiet nicht gibt.

Tipps zum Einsatz im Unterricht:

Vorbereitung: Drucken Sie beide Seiten als Klassensatz aus. Schneiden Sie die zweite Seite an der Schnittkante durch.
Im Unterricht: Verteilen Sie die erste Seite an alle Schülerinnen und Schüler. Reagieren Sie individuell mit der zweiten Seite auf die Bedürfnisse Ihrer Schüler: Unterstützen Sie Schüler durch die Lösungshilfen (zweite Seite oben), fordern Sie Schüler mit einer Zusatzaufgabe (zweite Seite unten).

Erste Seite:

Niveaustufe 2



KV 9

Das alte Rom

Auf Handelsreise am Limes

1 Gaius hat für seine Geschwister zuhause eine Zeichnung des Limes angefertigt. Beschriffe sie.

2 Maria, die kleine Schwester von Gaius, möchte zuhause wissen, wie das Alarmsystem am Limes funktioniert. Zeichne Pfeile in die Skizze ein und erkläre die Abläufe und deren Reihenfolge.

Germanen

Limes mit Wachtürmen

Meldelinie

Kastell

Römer

Kastell

© Ernst Klett Verlag GmbH, Stuttgart 2017 | www.klett.de | Alle Rechte vorbehalten. Von dieser Druckvorlage ist die Vervielfältigung für den eigenen Unterrichtsgebrauch gestattet. Die Kopiergebühren sind abgegolten.

Sustainment: Klett Archiv (Sandy Lohß), Stuttgart. Programmleiterin: Gesellschaftswissenschaften

Die erste Seite bildet die Grundlage für alle und steuert das mittlere Niveau an.

Zweite Seite:

Niveaustufe 1



KV 9

Das alte Rom

Lösungshilfen

1 Ordne die Begriffe den Zahlen auf dem Schaubild zu.
Kästchen mit Begriffen:
freies Germanien – Römisches Reich – Limestor/Durchlass – Palisadenzaun – Graben – Erdwall – Limesturm – Limeskastell

2 Sieh dir das Schaubild an und erkläre die Abläufe, die durch die Pfeile dargestellt werden, deinem Nachbarn.

Germanen

Limes mit Wachtürmen

Meldelinie

Kastell

Kastell

Römer

Zusatzaufgabe

3 Gaius und seine Schwester Maria streiten sich. Ist der Limes eine Grenzstation oder eine Handelsstation? Was meinst du? Begründe deine Meinung.

© Ernst Klett Verlag GmbH, Stuttgart 2017 | www.klett.de | Alle Rechte vorbehalten. Von dieser Druckvorlage ist die Vervielfältigung für den eigenen Unterrichtsgebrauch gestattet. Die Kopiergebühren sind abgegolten.

Sustainment: Klett Archiv (Sandy Lohß), Stuttgart. Programmleiterin: Gesellschaftswissenschaften

Auf der zweiten Seite oben befinden sich Lösungshilfen für Schülerinnen und Schüler, die Unterstützung brauchen.

Schnittkante

Niveaustufe 3

Auf der zweiten Seite unten befinden sich Zusatzaufgaben für Schülerinnen und Schüler, die zusätzlich gefördert werden sollen.